アルゴリズム論特論　(塩田)

2013 年 4 月 18 日　mod 2 の計算 その 2

　オセロの駒が 6 個の場合、同じ操作で全てを白にすることができるか否か、理由をつけて答えよ。

問 1

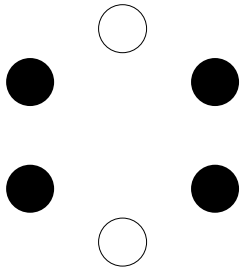

問 2

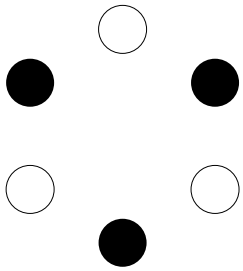
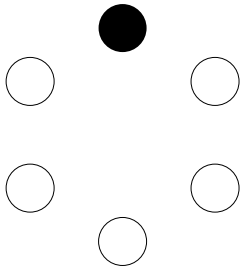
問 3