アルゴリズム論特論　(塩田)

2013 年 4 月 18 日　mod 2 の計算

図のようにオセロの駒が円形に並べてある。「隣り合う 3 個を同時に裏返す」という操作を何回行えば全てを白にすることができるか、その最少手を求めよ。

問 1



問 2

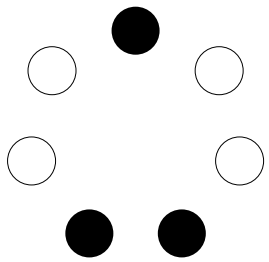

問 3

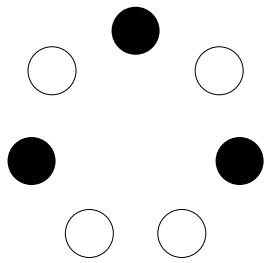

問 4

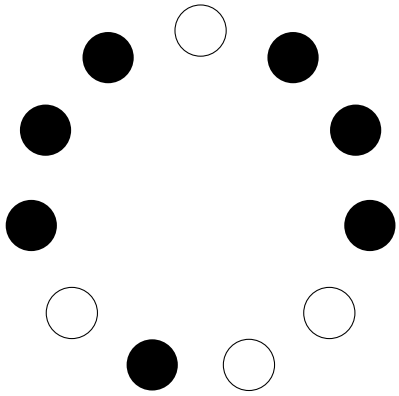
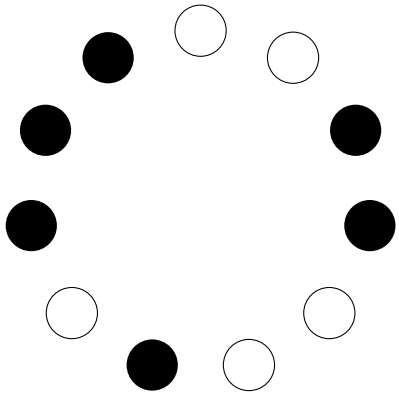
問 5