組合せとグラフの理論　(塩田)

2007 年 5 月 11 日の宿題

学籍番号　　氏名

問題 次の 4 つのグラフを考える。

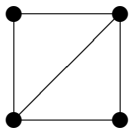

G_1

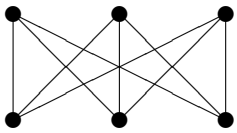

G_2

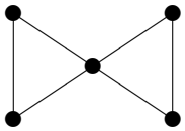

G_3

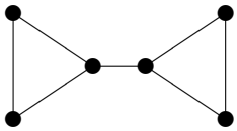

G_4

(1) 辺連結度も連結度も 1 であるグラフはどれか。

(2) 辺連結度は 2、連結度は 1 であるグラフはどれか。

(3) 辺連結度も連結度も 2 であるグラフはどれか。

(4) 辺連結度も連結度も 3 であるグラフはどれか。

提出期限：5 月 18 日　(授業時、または 512 号室ポストまで)